T9 Sécurité routière à Waterloo

La police de Waterloo organise des cours de sécurité routière dans toutes les écoles primaires de la commune.

L'équipe utilise des questionnaires préparés par VIAS (anciennement Institut Belge pour la Sécurité Routière).

Ceci est un "tutoriel" à propos du questionnaire 9 destiné aux élèves de sixième primaire.

Jessica Nicolas Kathy

réalisation: Albert Herremans

commencer

Exercice de circulation - Cyclistes - A partir de 10 ans.

9 Sûr ou dangereux?

voici 12 situations où il faut décider si l'enfant est prudent ou si son comportement est dangereux…

omportent prudemment.
nt de manière dangereuse.

IBSR

suivant

1

regarde bien le dessin ci-dessous

l’enfant est-il prudent ou son comportement est-il dangereux ?

Réponse

1

regarde bien le dessin ci-dessous

l’enfant est-il prudent ou son comportement est-il dangereux ?

L'enfant circule dans un rond-point sans piste cyclable; il a intérêt à rouler au centre de la bande de circulation, pour être plus visible.

Il respecte le code de la route.

J'entoure son numéro.

suivant

2

regarde bien le dessin ci-dessous

l’enfant est-il prudent ou son comportement est-il dangereux ?

Réponse



2

regarde bien le dessin ci-dessous

l’enfant est-il prudent ou son comportement est-il dangereux ?

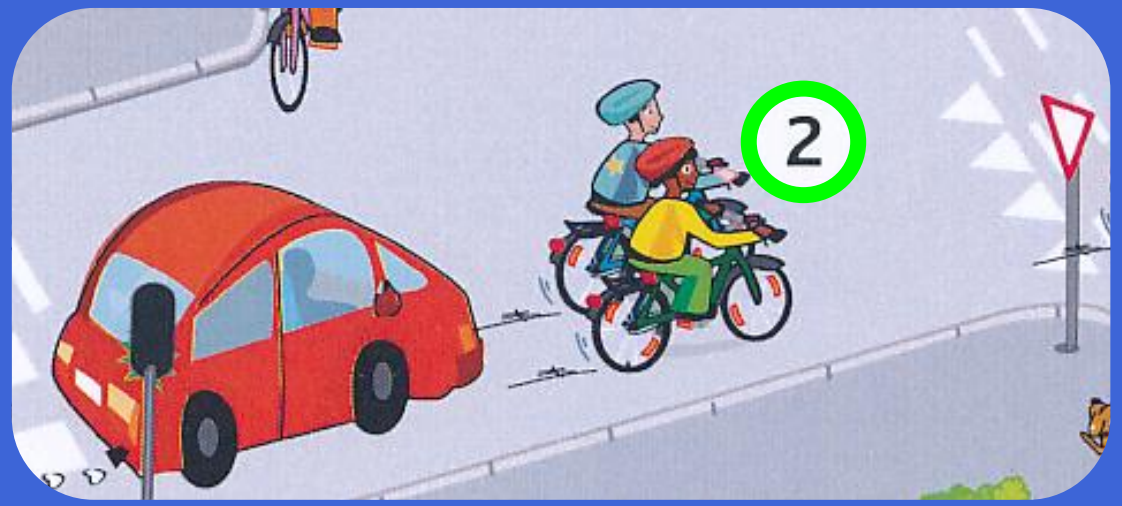

Les enfants roulent à 2 de front; ils peuvent le faire et doivent se replacer en file indienne lorsque le croisement avec un véhicule venant d'en face est impossible.

Ils respectent donc le code de la route.

J'entoure leur numéro.

suivant

3

regarde bien le dessin ci-dessous

l’enfant est-il prudent ou son comportement est-il dangereux ?

Réponse

3

regarde bien le dessin ci-dessous

l’enfant est-il prudent ou son comportement est-il dangereux ?

L'enfant traverse la rue sur un passage pour cyclistes; il n'a pas la priorité et ne peut s'engager qu'avec prudence en tenant compte des véhicules qui approchent.

Son comportement est donc dangereux.

Je barre son numéro.

suivant

4

regarde bien le dessin ci-dessous

l’enfant est-il prudent ou son comportement est-il dangereux ?

Réponse

4

regarde bien le dessin ci-dessous

l’enfant est-il prudent ou son comportement est-il dangereux ?

L’enfant traverse le carrefour en passant devant le signal « triangle sur pointe » qui indique qu’il n’a pas la priorité.

Son comportement est dangereux.

Je barre son numéro.

suivant

5

regarde bien le dessin ci-dessous

l’enfant est-il prudent ou son comportement est-il dangereux ?

Réponse

5

regarde bien le dessin ci-dessous

l’enfant est-il prudent ou son comportement est-il dangereux ?

L'enfant roule sur le trottoir; il ne peut pas le faire s'il a plus de 9 ans et un vélo dont les roues ont plus de 50 cm de diamètre!

Il ne respecte pas le code de la route.

Je barre son numéro.

suivant

6

regarde bien le dessin ci-dessous

l’enfant est-il prudent ou son comportement est-il dangereux ?

Réponse

6

regarde bien le dessin ci-dessous

l’enfant est-il prudent ou son comportement est-il dangereux ?



L'enfant roule sur la piste cyclable, mais dans le mauvais sens! Il doit emprunter la piste à droite dans le sens de sa progression.

Il ne respecte pas le code de la route.

Je barre son numéro.

suivant

7

regarde bien le dessin ci-dessous

l’enfant est-il prudent ou son comportement est-il dangereux ?

Réponse

7

regarde bien le dessin ci-dessous

l’enfant est-il prudent ou son comportement est-il dangereux ?



L'enfant est arrêté devant le feu rouge; mais il est dans l'angle mort du camion; il est impossible au camionneur de le voir.

Il a donc un comportement (très) dangereux.

Je barre son numéro.

suivant

8

regarde bien le dessin ci-dessous

l’enfant est-il prudent ou son comportement est-il dangereux ?

Réponse

8

regarde bien le dessin ci-dessous

l’enfant est-il prudent ou son comportement est-il dangereux ?

L’enfant passe à vélo sur un passage pour piétons; il devrait descendre de son vélo pour traverser sur le passage; le vélo à la main, il redevient piéton.

Il a donc un comportement dangereux.

Je barre son numéro.

suivant

9

regarde bien le dessin ci-dessous

l’enfant est-il prudent ou son comportement est-il dangereux ?

Réponse

9

regarde bien le dessin ci-dessous

l’enfant est-il prudent ou son comportement est-il dangereux ?



L'enfant roule à droite et traverse le carrefour quand le feu est au vert; il porte le casque, ce qui est fortement conseillé.

Il est donc prudent.

J'entoure son numéro.

suivant

10

regarde bien le dessin ci-dessous

l’enfant est-il prudent ou son comportement est-il dangereux ?

Réponse

10

regarde bien le dessin ci-dessous

l’enfant est-il prudent ou son comportement est-il dangereux ?



L'enfant roule en écoutant de la musique; il n'entend aucun bruit de la circulation.

Son comportement est dangereux.

Je barre son numéro.

suivant

11

regarde bien le dessin ci-dessous

l’enfant est-il prudent ou son comportement est-il dangereux ?

Réponse



11

regarde bien le dessin ci-dessous

l’enfant est-il prudent ou son comportement est-il dangereux ?

L’enfant sort d’une route à sens unique, mais les vélos peuvent circuler dans les deux sens comme l’indique le signal à l’entrée de la rue.

Il respecte donc le code de la route.

J’entoure son numéro.

suivant

12

regarde bien le dessin ci-dessous

l’enfant est-il prudent ou son comportement est-il dangereux ?

Réponse

12

regarde bien le dessin ci-dessous

l’enfant est-il prudent ou son comportement est-il dangereux ?

L'enfant roule en tenant son guidon d'une seule main, car il tient des achats dans l'autre main, ce qui risque de le déséquilibrer.

Son comportement est dangereux.

Je barre son numéro.